Ejercicios semana del 20 al 22 de abril

DEPARTAMENTO DE DIBUJO. CURSO 1º BACHILLERATO. DIBUJO TÉCNICO I

PERSPECTIVA CABALLERA

Ejercicio 1:

Ajustándose a los ejes del Sistema que se facilitan, representar a escala 1/1 la *Perspectiva Caballera* de la pieza dada por sus proyecciones.

Coeficiente de reducción 0’75.

Tomar las medidas de las vistas. Dibujar líneas ocultas.

Colocar la Perspectiva según la orientación de los ejes y del punto de origen (O) que se indica.

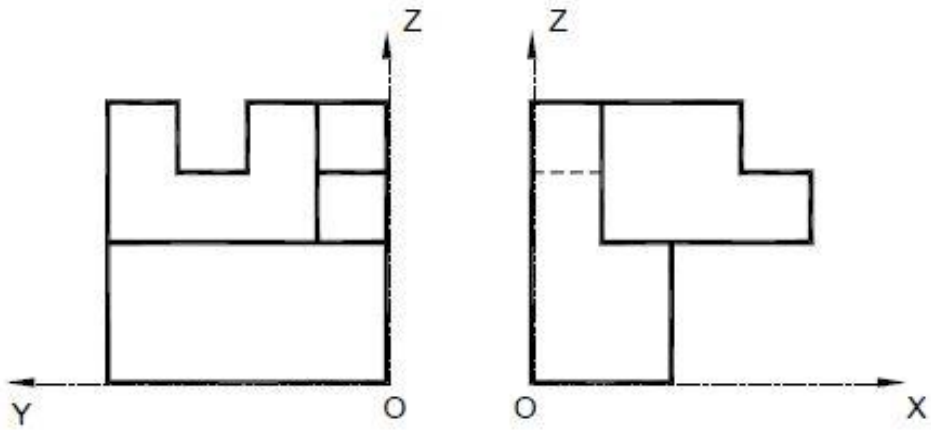
Z
Y
O

Z
O
X

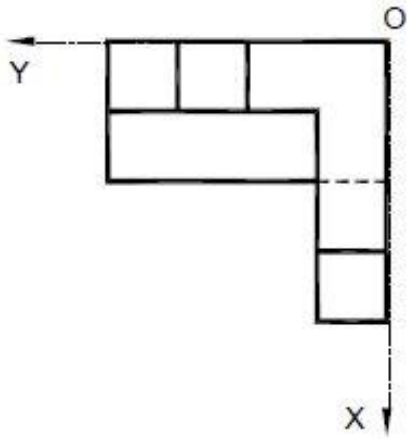
O
Y
X

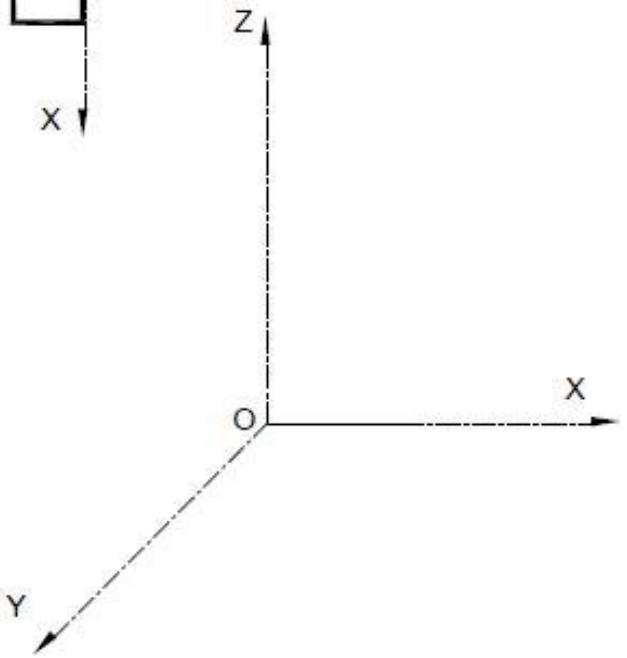
Z
X
O
Y

TEMPORALIZACIÓN 1º BACHILLERATO

- Plazo de entrega a las profesoras: hasta el 27 de abril.