Ejercicios semana del 18 al 24 de mayo

DEPARTAMENTO DE DIBUJO

CURSO 3º ESO. EDUCACIÓN PLÁSTICA VISUAL Y AUDIOVISUAL

PERSPECTIVA ISOMÉTRICA

A partir de las vistas de una pieza (planta, alzado y perfil de la misma), vamos a realizar su perspectiva isométrica.

Hacer primero a lápiz. Después repasar con los rotuladores calibrados negros. No es obligatorio hacer líneas ocultas en la perspectiva isométrica. En todo caso: 0'8 (líneas continuas: aristas vistas) y 0'4 (líneas discontinuas: aristas ocultas).

Medidas: cada lado de un cuadrado equivale a un lado del triángulo.

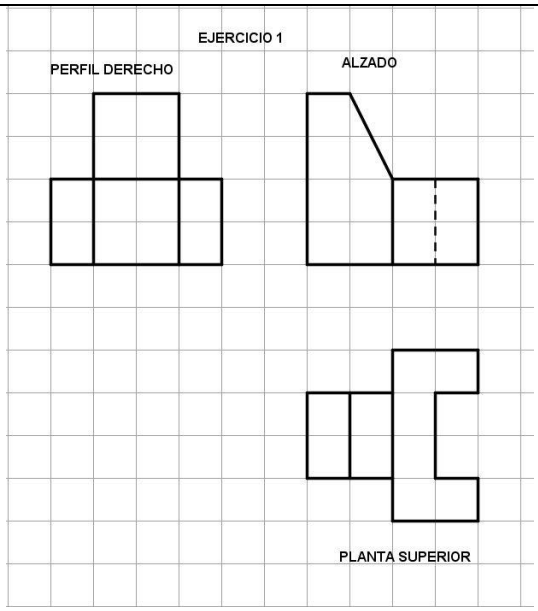

PERSPECTIVA ISOMÉTRICA.
SOLUCIÓN. EJERCICIO 1

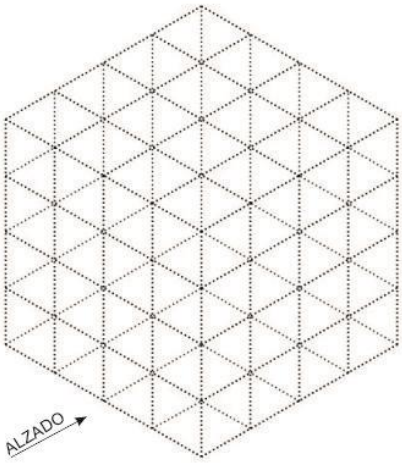

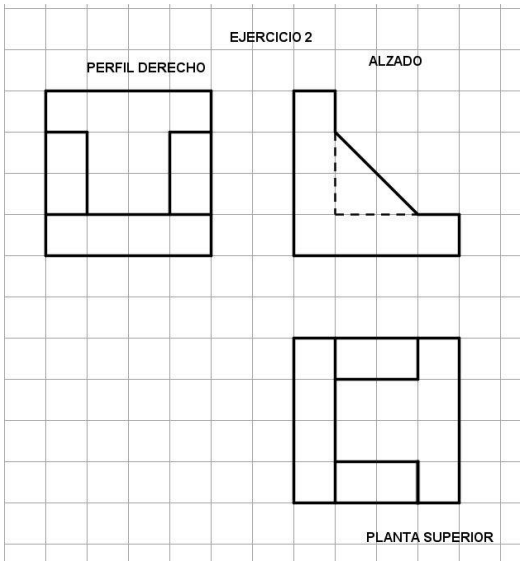

PERSPECTIVA ISOMÉTRICA.

SOLUCIÓN. EJERCICIO 2

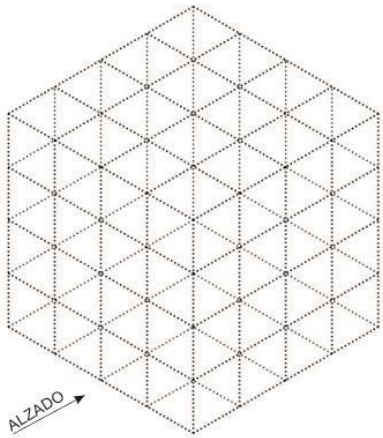

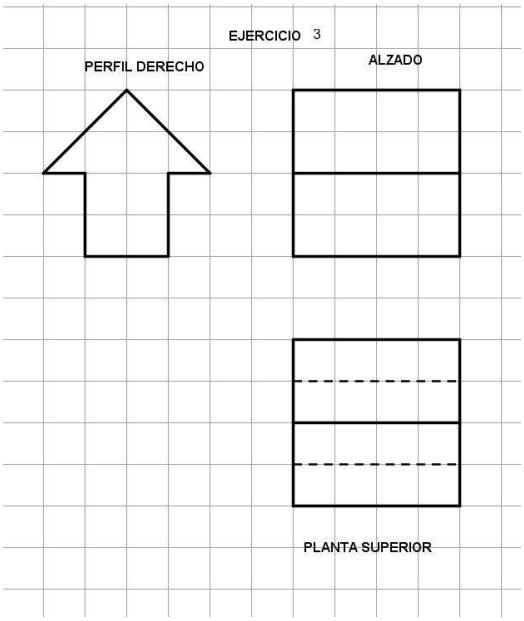

PERSPECTIVA ISOMÉTRICA

SOLUCIÓN. EJERCICIO 3

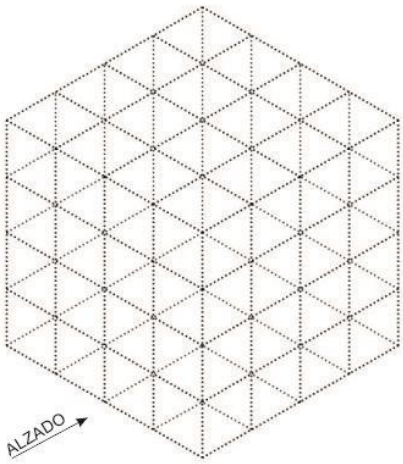

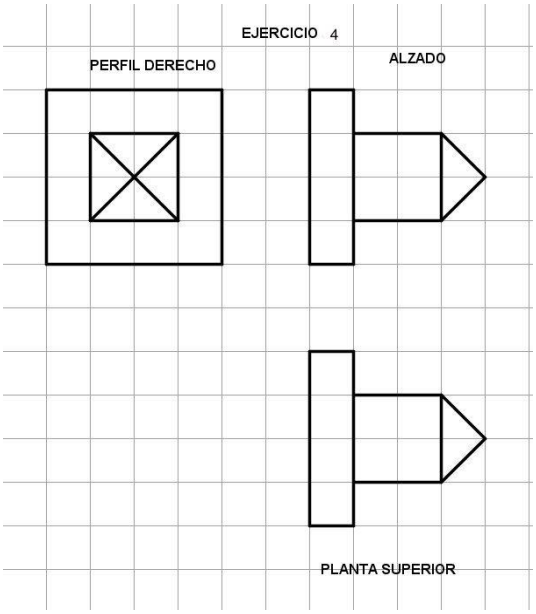

PERSPECTIVA ISOMÉTRICA

SOLUCIÓN. EJERCICIO 4

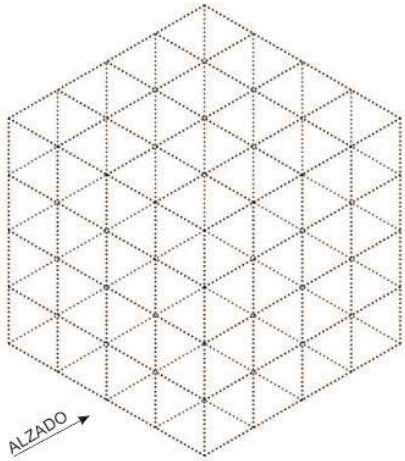

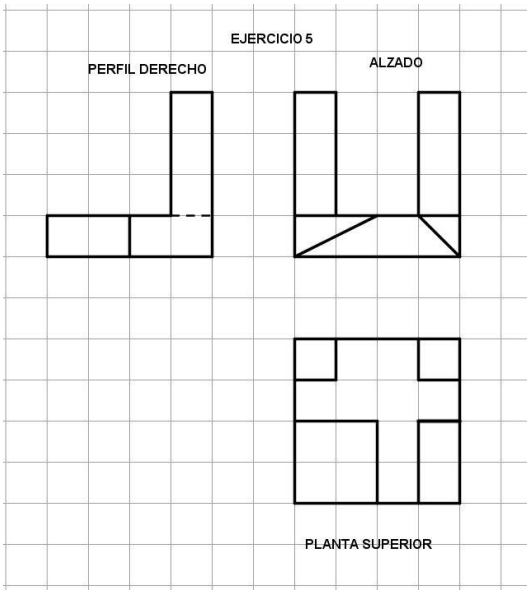

PERSPECTIVA ISOMÉTRICA

SOLUCIÓN. EJERCICIO 5

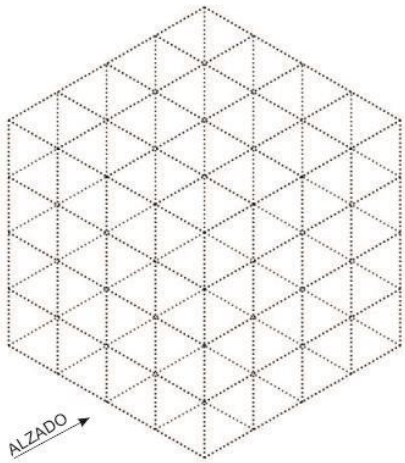

- **TEMPORALIZACIÓN:**

- Se han tenido en cuenta los horarios semanales presenciales.

- Como en los anteriores, una vez realizado enviáis una imagen (foto o escaneo) del trabajo al correo de vuestro profesor:

Juan Carlos De La Fuente	jfuente@educa.jcyl.es
Inés Luengo	iluengomuniz@educa.jcyl.es

- Fecha límite de envío: 25 de mayo.